Estrada da Água Branca, 2551 – Realengo – RJ
Tel: (21) 3462-7520
www.colegiomr.com.br

COLÉGIO MARQUES RODRIGUES - SIMULADO

PROFESSOR	DISCIPLINA	SIMULADO:
JULIO BESSA	GEOGRAFIA	P2

ALUNO	TURMA
	601

Questão 1
São fatores que se associam à urbanização do Brasil ao longo do século XX:
I. Industrialização tardia
II. Mecanização do campo
III. Políticas públicas demográficas
IV. Metropolização
V. Democratização fundiária
VI. Isenção de impostos urbanos
Estão corretas as afirmativas:
a) I, II e V
b) II, IV e VI
c) III, IV e V
d) I, III e VI
e) I, II e IV

Questão 2
Sobre o espaço urbano brasileiro, assinale a alternativa correta:
a) as regiões Sul e Nordeste, embora menos povoadas, apresentam as maiores taxas de urbanização.
b) com exceção das cidades de Brasília, Goiânia e Cuiabá, o Centro-Oeste brasileiro apresenta uma espacialidade urbana quase nula.
c) a concentração de habitantes no Sudeste, resultando na formação de grandes cidades nessa região, emergiu como uma reprodução da concentração econômica do país.
d) o espaço urbano brasileiro, embora não homogêneo, apresenta uma distribuição relativamente igualitária ao longo do território.
e) o número de cidades brasileiras com mais de dez milhões de habitantes vem diminuindo em razão do processo de desmetropolização.

Questão 3
Sobre a organização espacial e a hierarquia urbana do Brasil, julgue os itens a seguir:
I. As duas grandes cidades globais do Brasil são Rio de Janeiro e São Paulo. Juntas, elas formam um eixo populacional conhecido como megalópole.
II. O Brasil possui dezenas de metrópoles nacionais, cujo impacto produtivo, político e econômico alcança várias partes e regiões do território brasileiro.
III. Atualmente, há uma crescente importância das cidades médias e das metrópoles regionais brasileiras.
IV. Cidades como Goiânia e Florianópolis possuem uma polarização socioeconômica que se restringe a níveis regionais ou de um espaço próximo.
Estão corretas as afirmativas:
a) I e II
b) II e IV
c) III e IV
d) I, III e III
e) I, II, III e IV

Questão 4
(PUC-MG)
Observe atentamente o gráfico e, a seguir, assinale a afirmativa INCORRETA.

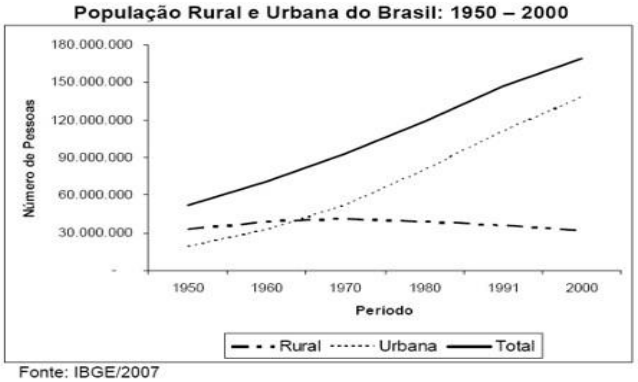

População rural e urbana do Brasil entre 1950 e 2000
a) O maior equilíbrio entre população rural e urbana verificou-se no final dos anos 60.
b) O declínio da população rural acentuou-se significativamente a partir de meados dos anos 70.
c) O ritmo de crescimento da população rural e urbana promoveu um desequilíbrio cada vez mais acentuado entre elas a partir da década de 70.
d) O ritmo de crescimento da população total tornou-se superior ao da população urbana a partir de meados da década de 90.

Questão 5
(Ibmec-RJ) Esta é uma clássica definição sobre as chamadas cidades globais: "As cidades globais são os principais centros financeiros e bancários do planeta. Concentram o controle administrativo de grandes empresas ou de organizações internacionais, além de serviços modernos e especializados". As mais importantes cidades globais são:
a) Berlim, Nova York, Paris.
b) Los Angeles, Paris, Londres.
c) Washington, Moscou, Pequim.
d) Nova York, Londres, Tóquio.
e) Detroit, Estocolmo, Amsterdã

Questão 6
(UFF-RJ) Os mapas ilustram o processo de urbanização do território brasileiro ao longo da última metade do século XX.

Cidades com mais de 100 mil habitantes

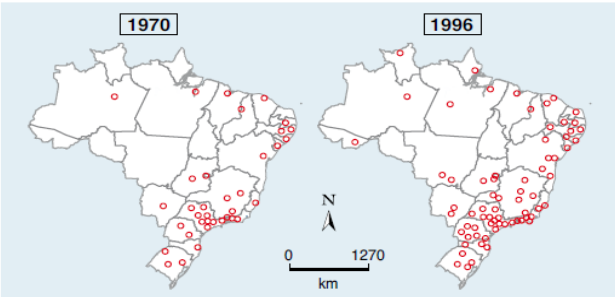

INSTITUTO Brasileiro de Geografia e Estatística (IBGE).

Analisando a geografia da urbanização brasileira, pode-se afirmar que: a) o fenômeno urbano no Brasil caracteriza-se pelo crescimento homogêneo das cidades na região Centro-Sul – sobretudo por causa da difusão das indústrias – e bastante heterogêneo no Nordeste, graças ao domínio dos latifúndios.
b) as cidades brasileiras ganharam expansão sob os eixos norte-sul (1970) e leste-oeste (1996), concentrando o maior número da população brasileira e acompanhando as mudanças no processo das migrações regionais.
c) esse processo de urbanização acompanha a concentração industrial e de serviços e forma uma rede urbana polarizada pelas metrópoles nacionais e regionais da faixa leste do território brasileiro.
d) a urbanização das regiões agrícolas marca uma mudança no eixo da urbanização, pois seu crescimento econômico é responsável pela atual interiorização da concentração de cidades, em detrimento das concentrações urbanas tradicionais.
e) a pequena expressão da urbanização nas regiões Norte e Centro-Oeste deve-se ao fato de as condições naturais apresentarem-se pouco propícias à industrialização e à concentração demográfica observadas nas regiões Sudeste e Sul. 14.

Questão 7
(FGV-SP) Observe a imagem, que apresenta um fato comum encontrado em grande parte das médias e grandes cidades brasileiras na década de 1990.

Decorridos mais de 10 anos entre o momento da foto e os dias atuais, pode-se afirmar que o planejamento urbano, no Brasil, é:
a) uma realidade evidente que, de certo modo, consegue reduzir o apartheid urbano.
b) considerado renovador porque está sempre transformando as áreas centrais das cidades.
c) incipiente porque não consegue corrigir as distorções criadas pelo crescimento desordenado.
d) resultado do amadurecimento e mobilização da sociedade que reivindica melhorias na infraestrutura.
e) responsável por um rígido controle do crescimento urbano, via fiscalização do Estado.

Questão 8
(UFJF-MG) As figuras a seguir representam dois esquemas de relações entre as cidades: o clássico e o atual.

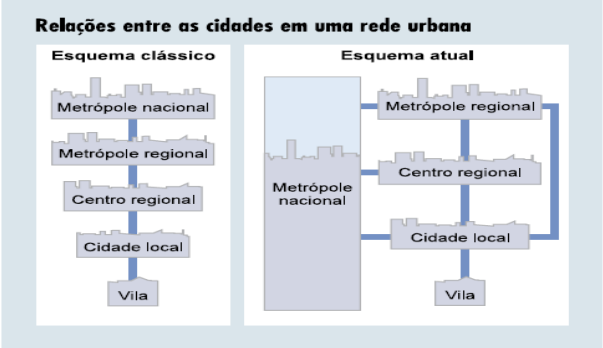

Adap.: SENE, Eustáquio de; MOREIRA, João Carlos. *Geografia Geral e do Brasil*. São Paulo: Scipione, 1999.

Por que a concepção tradicional de hierarquia urbana está sendo substituída pela atual?
a) Porque muitos distritos, vilas e até mesmo bairros se emanciparam e foram elevados à categoria de município.
b) Porque o êxodo rural leva ao desaparecimento de muitas vilas e cidades pequenas, localizadas distantes das metrópoles.
c) Porque o avanço tecnológico dos transportes e comunicações e a disponibilidade de renda encurtam as distâncias.
d) Porque a queda de regimes totalitários não permitiu maior mobilidade da população e favoreceu a migração interurbana.
e) Porque as atuais diretrizes do planejamento urbano promovem a concentração das indústrias de base nas metrópoles.

Questão 9
(Unesp-SP) As previsões de especialistas para 2015 projetam que cerca de 33 cidades do mundo terão, pelo menos, 8 milhões de habitantes ocupando 0,4% da área do planeta. Assinale a alternativa que contém o processo descrito e alguns impactos ambientais importantes dele resultantes.
a) Envelhecimento da população; favelas; voçoroca.
b) Globalização; efeito estufa; assoreamento dos rios.
c) Urbanização; segregação espacial; enchentes.
d) Emigração; chuva ácida; migrações pendulares.
e) Favelização; secas; erosão eólica.

Questão 10
(Fatec-SP) Nos últimos anos, ocorreram mudanças no padrão migratório brasileiro. As metrópoles do Sudeste já não apresentam o elevado grau de atração demográfica que tinham antigamente. Entre as causas desse fato, pode-se citar:
a) o maior controle por parte do Estado brasileiro para inibir o crescimento descontrolado das cidades.
b) a criação das frentes pioneiras no Sul do país, que representam grande potencial de empregos na zona rural.
c) a redução das históricas diferenças econômicas entre as regiões, graças à modernização das atividades agrícolas.
d) a descentralização econômica, pois inúmeras empresas estão saindo do Sudestee se instalando em outras regiões.
e) o empenho de órgãos, como o IBGE, que tentam promover o aumento das densidades demográficas no interior do país

Questão 11
(Unifesp-SP) No Brasil, em decorrência do processo de urbanização, verificou-se uma intensa metropolização, da qual resultaram:
a) cidades médias, que se industrializaram após a abertura econômica da década de 1990, como Campinas e Ouro Preto.
b) metrópoles nacionais, sedes do poder econômico e político do país, como São Paulo, Brasília e Rio de Janeiro.
c) cidades mundiais, que receberam vultosos investimentos externos no início do século XXI, como Belo Horizonte e Rio de Janeiro.
d) megacidades dispersas pelo país, graças ao retorno de imigrantes, como Manaus, Goiânia e Curitiba.
e) metrópoles regionais, que constituem a primeira megalópole do país, como Fortaleza, Recife e Salvador.

Questão 12
(PUC-SP) É comum encontrar, nas referências sobre a urbanização no século XX, menções ao fato de ela ter sido fortemente marcada pela metropolização. De fato, as metrópoles são fundamentais para se entender a vida urbana contemporânea. A respeito das metrópoles modernas brasileiras, pode-se afirmar que:
a) não são aglomerações tão grandes quanto as de outros países, porque elas são fragmentadas em vários municípios, como no caso de São Paulo.
b) são configurações cujas dinâmicas, em alguns casos, levaram seus limites para além do núcleo municipal de origem, formando aglomerações multimunicipais.
c) elas são aglomerações modestas em razão da inviabilidade de se administrar em países pobres áreas urbanas de grande porte.
d) apenas uma delas pode ser considerada de fato metrópole, logo, não se pode afirmar que no Brasil houve uma urbanização metropolitana.
e) elas estão com o seu crescimento paralisado, sofrendo, em alguns casos, encolhimento, em função de novas políticas de planejamento.

Questão 13
"*Em várias áreas do conhecimento, o conceito de região é utilizado com diferentes propósitos ou objetivos. Na Literatura, por exemplo, esse conceito foi usado em obras literárias e traduz delimitações espaciais, expressas no regionalismo, como foi o caso de escritores nordestinos, como Rachel de Queiroz, José Lins do Rego, Jorge Amado, Ariano Suassuna, entre outros. Na Sociologia, também se pode encontrar esse mesmo recorte regionalista, como o elaborado por Gilberto Freyre. Para a Geografia, o conceito de região tem importante significado".*
(MARTINS, D.; et al. *Geografia sociedade e cotidiano*: fundamentos. Vol. 01. 3ª ed. São Paulo: Escala Educacional, 2013. p.36)
O conceito de região para a Geografia melhor se identifica em uma das afirmações a seguir. Assinale-a.
a) Organização do agrupamento das paisagens naturais da Terra.
b) Criação racional em que se divide uma área com base em critérios previamente estabelecidos.
c) Divisão social das práticas humanas que diz respeito aos processos de composição dos elementos urbanos.
d) Delimitação espacial realizada a partir da posse, soberania ou domínio sobre uma determinada área a partir de uma relação de poder.
e) Representação cognitiva dos elementos culturais humanos e das paisagens naturais.

Questão 14
"*De que me adianta viver na cidade, se a felicidade não me acompanhar? Adeus, paulistinha do meu coração, lá pro meu sertão, eu quero voltar. Ver a madrugada, quando a passarada, fazendo alvorada, começa a cantar. Com satisfação, arreio o burrão, cortando estradão, saio a galopar e vou escutando o gado berrando, sabiá cantando no jequitibá".*
(*Saudades da minha Terra*. Composição: Goiá e Belmonte)
As lembranças apresentadas pelo eu lírico do trecho acima, bem como a sua identificação com o sertão, são elementos que fazem com que o local citado possa ser classificado como:
a) uma morfologia da paisagem.
b) uma região geográfica.
c) um tipo de território bucólico.
d) um lugar de identificação cultural.
e) uma descrição do espaço regional.

Questão 15
"O secretário de Segurança Pública do Rio de Janeiro, José Mariano Beltrame, afirmou nesta quinta-feira (25), após a megaoperação que tomou a favela da Vila Cruzeiro, na zona norte da capital, que o objetivo central das ações da polícia no Estado é o de tirar território do tráfico. 'Essas ações estão sendo feitas com o objetivo de garantir a continuidade do que está sendo feito. Foi tirado dessas pessoas o que nunca foi tirado, o território. Seu porto seguro. Eles faziam suas barbaridades e corriam para seu reduto, protegidos por armas de guerra. É importante prender, mas é mais importante tirar o território', disse Beltrame. 'Se não tirar o território, não se avança' (...)".
(D'AGOSTINO, R. *Objetivo é tirar território do tráfico, diz secretário de Segurança do Rio*. São Paulo: Uol Notícias, 25/11/2010. Disponível em: <http://noticias.uol.com.br>).
Os espaços dominados pelo tráfico, conforme observamos na notícia acima, constituem-se a partir da expressão de suas territorialidades. Podemos concluir que a existência desses territórios é garantida por esses grupos
a) por uma relação de poder e domínio.
b) a partir de uma posição de intimidação moral.
c) pelo status do traficante no contexto do crime organizado.
d) pela identificação da população local com os grupos criminosos.
e) com base na sensação de pertencimento entre o indivíduo e o seu lugar.

Questão 16
(ENEM 2012)
"*Portadora de memória, a paisagem ajuda a construir os sentimentos de pertencimento; ela cria uma atmosfera que convém aos momentos fortes da vida, às festas, às comemorações".*
(CLAVAL, P. *Terra dos homens*: a geografia. São Paulo: Contexto, 2010 (adaptado)).
No texto, é apresentada uma forma de integração da paisagem geográfica com a vida social. Nesse sentido, a paisagem, além de existir como forma concreta, apresenta uma dimensão
a) política de apropriação efetiva do espaço.
b) econômica de uso de recursos do espaço.
c) privada de limitação sobre a utilização do espaço.
d) natural de composição por elementos físicos do espaço.
e) simbólica de relação subjetiva do indivíduo com o espaço.

Questão 17
(FUVEST)

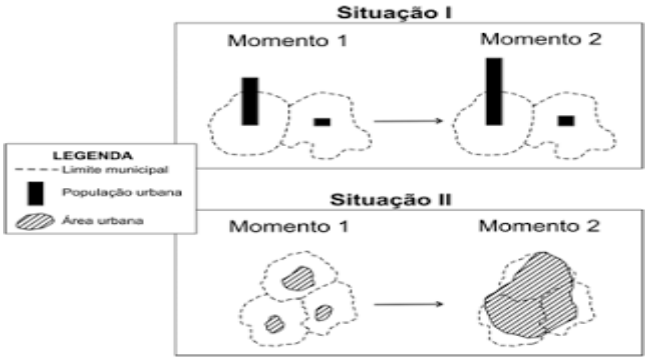

A recente urbanização brasileira tem características parcialmente representadas nas situações I e II dos esquemas acima. Considerando essas situações, é correto afirmar que, entre outros processos,
a) I representa a involução urbana de uma metrópole regional.
b) I representa a perda demográfica relativa da cidade central de uma Região Metropolitana.
c) II representa o desmembramento territorial e criação de novos municípios.
d) II representa a formação de uma região metropolitana, a partir do fenômeno da conurbação.
e) II representa a fusão político-administrativa de municípios vizinhos.

Questão 18
(UFAL) Sobre o tema Urbanização, analise as afirmações a seguir.

1) Os fatores que funcionam como atrativos da urbanização, nos países subdesenvolvidos, estão ligados basicamente ao processo de industrialização.
2) A forte urbanização nos países subdesenvolvidos só ocorreu em face do processo de globalização verificado após o fim da URSS, quando houve um aumento de exportações dos produtos primários.
3) As cidades, nos países desenvolvidos, foram se estruturando para absorver os migrantes, havendo, então, melhorias na infra-estrutura urbana e um aumento da geração de empregos.
4) Nas áreas metropolitanas de países subdesenvolvidos, muitos desempregados, para garantir a sobrevivência, refugiam-se no subemprego da economia informal.

Estão corretas apenas:
a) 1 e 2
b) 2 e 4
c) 1 e 4
d) 2 e 3
e) 1, 3 e 4

Questão 19
(Ufscar) Analise a tabela e as afirmativas que a seguem.

BRASIL: DISTRIBUIÇÃO DA POPULAÇÃO SEGUNDO O TAMANHO DAS CIDADES.

Tamanho das cidades	1970	1980	1991	2000
Até 20 mil habitantes	26,9	21,35	19,34	18,81
De 20 a 50 mil habitantes	12,04	11,40	12,44	11,49
De 50 a 100 mil habitantes	7,80	10,50	10,23	10,57
De 100 a 500 mil habitantes	19,59	21,92	24,43	26,12
Maiores que 500 mil habitantes	33,65	34,83	33,56	33,01
População urbana total	52 milhões	80,4 milhões	110,9 milhões	137,9 milhões

(IBGE, Censos de 1970, 1980, 1991 e 2000.)

I. Observa-se em todos os períodos um crescimento contínuo das grandes cidades, em detrimento das pequenas e médias.
II. As cidades médias – aquelas com populações entre 100 e 500 mil habitantes – vêm conhecendo um crescimento superior às demais.
III. As cidades que menos crescem são as menores, as localidades com até 20 mil habitantes.
IV. As cidades que mais crescem são as maiores, as metrópoles com mais de 500 mil habitantes.
São corretas as afirmativas:

a) I e II.
b) II e III.
c) I e IV.
d) I e III.
e) II e IV.

Questão 20
Analise o mapa e marque a alternativa INCORRETA.

a) O Brasil está localizado na América do Sul e é banhado somente pelo oceano Atlântico.
b) Dos países sul-americanos, somente Chile e Equador não possuem fronteira o Brasil.
c) A porção sul do Brasil é cortada pela linha do Equador, mais precisamente nos estados Amapá, Pará, Roraima e Amazonas.
d) Bolívia e Peru estão localizados a oeste do território brasileiro.
e) O Trópico de Capricórnio corta o território brasileiro na porção sul.